NUEVA ESCUELA MEXICANA

DE PRIMER A SEXTO GRADO

Aprender también es soñar

Pequeños esfuerzos grandes logros

RESPETO
INCLUSIÓN
EQUIDAD
COMUNIDAD

ACTIVIDADES DE REFUERZO NEM

ESPAÑOL Y MATEMÁTICAS

MARTES 24 DE NOVIEMBRE DE 2026

LEER
IMAGINAR
CRECER

1
2
3

DESCARGA GRATIS EN PDF

IDEAS
PLANES
FUTURO

Más recursos educativos gratuitos en www.imageneseducativas.com



ACTIVIDADES DE REFUERZO NEM

ESPAÑOL Y MATEMÁTICAS

MARTES 24 DE NOVIEMBRE DE 2026

PRIMER GRADO



Nombre: _____

ESPAÑOL

1 Completa con la vocal que falta.



g_to



m_no



p_ra



l_bro

2 Une las sílabas y escribe.

SO + PA = _____

CA + MA = _____

PA + LA = _____

3 Lee y dibuja.

El oso lleva una bufanda verde.

MATEMÁTICAS

4 Completa la serie.

10, ___, 12, ___, 14, ___, 16

5 Escribe el número mayor.

8 y 12	17 y 14	9 y 6

6 Calcula.

6 + 5 = _____ 14 − 5 = _____

8 + 7 = _____ 19 − 7 = _____

7 Resuelve.

Hugo tiene 12 colores y presta 4 a su amiga. ¿Cuántos colores le quedan?

Operación	Respuesta

Más recursos educativos gratuitos en www.imageneseducativas.com



ACTIVIDADES DE REFUERZO NEM

SEGUNDO GRADO

ESPAÑOL Y MATEMÁTICAS

MARTES 24 DE NOVIEMBRE DE 2026



Nombre: _____

ESPAÑOL

1 Completa con r o rr.



pe__o



ca__acol



to__e



ma__iposa

2 Escribe el diminutivo.

casa → _____

mesa → _____

perro → _____

gato → _____

3 Lee y responde.

Noa salió al parque con su abuelo. Recogieron hojas amarillas y después hicieron un collage en casa.

¿Con quién salió Noa?

_____

¿Qué hicieron con las hojas?

_____

MATEMÁTICAS

4 Escribe con letra.

125 → _____

243 → _____

316 → _____

5 Calcula.

76 + 19 = _____ 85 - 37 = _____

58 + 26 = _____ 94 - 48 = _____

6 Completa las series.

200, 210, _____, 230, _____

60, 55, _____, 45, _____

7 Resuelve.

María compra una libreta de $35 y un lápiz de $12. Paga con $50. ¿Cuánto cambio recibe?

Operación:

Respuesta:

_____

Más recursos educativos gratuitos en www.imageneseducativas.com



ACTIVIDADES DE REFUERZO NEM

SEGUNDO GRADO

ESPAÑOL Y MATEMÁTICAS

MARTES 24 DE NOVIEMBRE DE 2026



Nombre: _____

ESPAÑOL

1 Completa con r o rr.



pe__o



ca__acol



to__e



ma__iposa

2 Escribe el diminutivo.

casa → _____

mesa → _____

perro → _____

gato → _____

3 Lee y responde.

Noa salió al parque con su abuelo. Recogieron hojas amarillas y después hicieron un collage en casa.

¿Con quién salió Noa?

_____

¿Qué hicieron con las hojas?

_____

MATEMÁTICAS

4 Escribe con letra.

125 → _____

243 → _____

316 → _____

5 Calcula.

76 + 19 = _____ 85 - 37 = _____

58 + 26 = _____ 94 - 48 = _____

6 Completa las series.

200, 210, _____, 230, _____

60, 55, _____, 45, _____

7 Resuelve.

María compra una libreta de $35 y un lápiz de $12. Paga con $50. ¿Cuánto cambio recibe?

Operación:

Respuesta:

_____

Más recursos educativos gratuitos en www.imageneseducativas.com

ACTIVIDADES DE REFUERZO NEM

ESPAÑOL Y MATEMÁTICAS

TERCER GRADO

MARTES 24 DE NOVIEMBRE DE 2026

Nombre: _____





ESPAÑOL

1 Escribe un adjetivo para cada sustantivo.

montaña → _____

perro → _____

flor → _____

libro → _____

2 Completa con c o qu.

__eso

__uchara

__ince

__amino

mos__ito

3 Lee y responde.

Hugo y Noa encontraron una mariposa en el jardín de la escuela. La observaron con cuidado y dejaron que volara libremente.



¿Qué animal encontraron?

¿Dónde lo encontraron?

MATEMÁTICAS

4 Calcula.

745 + 186 = _____

802 − 357 = _____

24 × 3 = _____

36 × 2 = _____

5 Completa las multiplicaciones.

7 × __ = 56

8 × __ = 72

__ × 6 = 36

6 Resuelve las divisiones.

54 ÷ 6 = _____

81 ÷ 9 = _____

42 ÷ 7 = _____

7 Resuelve.

Una maestra organiza 8 equipos de 6 alumnos cada uno. ¿Cuántos alumnos hay en total?

Operación:

Respuesta:

ACTIVIDADES DE REFUERZO NEM

ESPAÑOL Y MATEMÁTICAS

MARTES 24 DE NOVIEMBRE DE 2026

CUARTO GRADO

Nombre: _____

ESPAÑOL

1 Escribe dos palabras de cada familia.

pan → _____ / _____

flor → _____ / _____

mar → _____ / _____

2 Completa con h cuando sea necesario.

___uevo

___ola (saludo)

___árbol

___ielo

___arena

3 Identifica el verbo y su infinitivo.

- Clara dibuja un paisaje.
  Verbo: _____ Infinitivo: _____
- Los niños corrieron por el patio.
  Verbo: _____ Infinitivo: _____
- Mañana leeremos un cuento.
  Verbo: _____ Infinitivo: _____

MATEMÁTICAS

4 Calcula.

8456 + 2789 = _____

7304 − 3586 = _____

125 × 6 = _____

848 ÷ 8 = _____

5 Suma y resta fracciones.

$\frac{2}{7} + \frac{3}{7} =$ _____

$\frac{6}{9} - \frac{2}{9} =$ _____

$\frac{1}{5} + \frac{3}{5} =$ _____

6 Calcula el área.



Área = _____ cm²

7 Resuelve.

Una tienda recibe 12 cajas con 36 botellas de agua cada una. Vende 175 botellas. ¿Cuántas le quedan?

Operaciones:

Respuesta:

_____

Más recursos educativos gratuitos en www.imageneseducativas.com

ACTIVIDADES DE REFUERZO NEM

ESPAÑOL Y MATEMÁTICAS

MARTES 24 DE NOVIEMBRE DE 2026

QUINTO GRADO

Nombre: _____

ESPAÑOL

1 Sustituye el sujeto por un pronombre personal.

- Marta canta muy bien.

_____

- Luis y Pablo juegan futbol.

_____

- Ana y yo hacemos la tarea.

_____

2 Clasifica según su acentuación.

reloj · azúcar · médico · sofá · túnel · sábado

Agudas	
Graves	
Esdrújulas	

3 Completa con ll o y.

- estre___a
- desa___uno
- caba___o
- ma___or
- toa___a

MATEMÁTICAS

4 Calcula.

- 67.45 + 28.78 = ____
- 120.5 − 46.85 = ____
- 6.35 × 8 = ____
- 144 ÷ 12 = ____

5 Calcula las fracciones.

- $\frac{2}{5}$ de 250 = ____
- $\frac{3}{4}$ de 320 = ____
- $\frac{5}{6}$ de 180 = ____

6 Convierte las medidas.

- 2.4 km = ____ m
- 3.6 kg = ____ g
- 0.75 L = ____ mL

7 Resuelve.

Una familia compra 4 boletos de cine a $85.50 cada uno y dos bolsas de palomitas a $37.50 cada una. ¿Cuánto paga en total?

Operaciones:	Respuesta:

Más recursos educativos gratuitos en www.imageneseducativas.com



ACTIVIDADES DE REFUERZO NEM

ESPAÑOL Y MATEMÁTICAS

MARTES 24 DE NOVIEMBRE DE 2026

SEXTO GRADO



Nombre: _____

ESPAÑOL

1 Identifica el complemento directo y el indirecto.

- La bibliotecaria prestó un libro a Marcos.

Complemento directo: _____

Complemento indirecto: _____

- Mi abuela regaló una bufanda a su nieta.

Complemento directo: _____

Complemento indirecto: _____

2 Escribe un sinónimo y un antónimo.

Palabra	Sinónimo	Antónimo
valiente		
generoso		
tranquilo		

3 Identifica el recurso literario.

- El sol es una moneda de oro.

_____

- La lluvia golpeaba enfadada los cristales.

_____

- Sus manos eran suaves como el algodón.

_____

MATEMÁTICAS

4 Resuelve las operaciones combinadas.

- $7^2 + 36 \div 6 =$ _____
- $4 \times (25 - 13) =$ _____
- $\sqrt{169} + 5^2 =$ _____
- $(90 - 42) \div 8 =$ _____

5 Suma y resta fracciones.

- $\frac{2}{3} + \frac{1}{6} =$ _____
- $\frac{5}{8} - \frac{1}{4} =$ _____
- $\frac{3}{5} + \frac{1}{10} =$ _____

6 Resuelve la proporcionalidad.

4 cuadernos cuestan $100. ¿Cuánto cuestan 9 cuadernos?

7 Resuelve.

Una computadoro cuesta $7,500. Durante una promoción tiene un descuento del 20 %. ¿Cuál es su precio final?

Más recursos educativos gratuitos en www.imageneseducativas.com