ACTIVIDADES DE REFUERZO

LENGUA Y MATEMÁTICAS

DE 1.º A 6.º DE PRIMARIA

LUNES 23 DE NOVIEMBRE DE 2026



Más recursos educativos gratuitos en www.imageneseducativas.com



ACTIVIDADES DE REFUERZO

LENGUA Y MATEMÁTICAS

LUNES 23 DE NOVIEMBRE DE 2026

1.º DE PRIMARIA



LENGUA

1 Completa las palabras.



ca __ __



so __ __



lu __ __



pa __ __

2 Ordena las sílabas.

TO – GA _____

SA – ME _____

PA – SO _____

3 Lee y responde.

Lola tiene un gato blanco.
El gato duerme en una cesta.



¿Cómo se llama la niña?

¿Dónde duerme el gato?

MATEMÁTICAS

4 Cuenta y escribe.





5 Escribe el anterior y el posterior.

	8	
	14	
	19	

5 Calcula.

7 + 6 = ☐

9 + 5 = ☐

16 − 8 = ☐

18 − 9 = ☐

7 Resuelve.



En el parque hay 8 pájaros. Llegan 5 más.
¿Cuántos pájaros hay ahora?

Operación: ☐

Respuesta: Hay ☐ pájaros.



ACTIVIDADES DE REFUERZO

LENGUA Y MATEMÁTICAS

LUNES 23 DE NOVIEMBRE DE 2026

2.º DE PRIMARIA



LENGUA

1 Completa con br o bl.

____azo ____usa

li___o pue___o

2 Escribe el plural.

luz → _____

flor → _____

pez → _____

árbol → _____

3 Lee y responde.

Marcos fue al mercado con su madre. Compraron manzanas, peras y una barra de pan. Después regresaron a casa.

¿Con quién fue Marcos?

¿Qué frutas compraron?

MATEMÁTICAS

4 Descompón los números.

348 = ___ centenas + ___ decenas + ___ unidades

572 = ___ centenas + ___ decenas + ___ unidades

5 Calcula.

67 + 28 = _____

92 − 46 = _____

48 + 35 = _____

81 − 57 = _____

6 Completa las series.

110, 120, _____, 140, _____

75, 70, _____, 60, _____

7 Resuelve.

Ana compra un cuento de 8 € y una libreta de 5 €. Paga con 20 €. ¿Cuánto dinero le devuelven?

Operación:

Respuesta:



Más recursos educativos gratuitos en www.imageneseducativas.com



ACTIVIDADES DE REFUERZO

LENGUA Y MATEMÁTICAS

LUNES 23 DE NOVIEMBRE DE 2026

3.º DE PRIMARIA



LENGUA

1 Clasifica las palabras.

bosque · saltar · pequeño · mariposa · escribir · alegre

Sustantivos	
Verbos	
Adjetivos	

2 Completa con g o j.

___irafa relo___

via___e prote___er

mensa___e

3 Lee y responde.

Los alumnos de tercero plantaron un árbol en el patio del colegio. Cada semana, dos encargados se ocupan de regarlo.

- ¿Dónde plantaron el árbol?

- ¿Quiénes lo riegan?

MATEMÁTICAS

4 Calcula.

586 + 347 = ____ 8 × 7 = ____

904 − 568 = ____ 9 × 8 = ____

5 Completa las tablas.

6 × ____ = 48

__ × ____ = 49

9 × ____ = 63

6 Resuelve las divisiones.

56 ÷ 7 = ____

72 ÷ 8 = ____

45 ÷ 5 = ____

7 Resuelve.

Una profesora reparte 72 lápices entre 9 equipos. ¿Cuántos lápices recibe cada equipo?

Operación:

Respuesta:



Más recursos educativos gratuitos en www.imageneseducativas.com

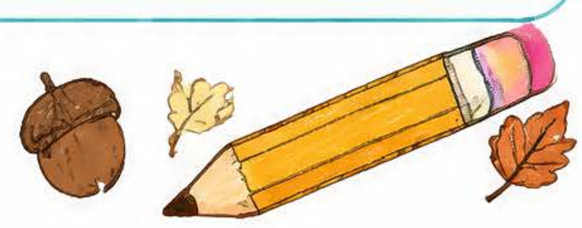



ACTIVIDADES DE REFUERZO

LENGUA Y MATEMÁTICAS

LUNES 23 DE NOVIEMBRE DE 2026

5.º DE PRIMARIA





LENGUA

1 Identifica el tiempo verbal.

Escribe si está en pasado, presente o futuro.

- Ayer visitamos el museo.

- Hoy estudiamos los planetas.

- Mañana iremos de excursión.

2 Corrige las tildes.

Escribe de nuevo la oración correctamente.

- El pajaro volo sobre el arbol.

- Mi hermano encontro un lapiz en el jardin.

3 Clasifica las palabras.

Escribe cada palabra en su categoría.

rápidamente · escuela · hermoso · correr · montaña · alegre

Sustantivos	
Adjetivos	
Verbos	
Adverbios	

MATEMÁTICAS

4 Calcula.

48,75 + 36,80 =

95,4 – 27,65 =

7,25 × 4 =

252 ÷ 12 =

5 Calcula las fracciones.

$\frac{3}{4}$ de 200 =

$\frac{2}{5}$ de 350 =

$\frac{1}{3}$ de 180 =

6 Convierte las medidas.

3,5 km = m

2,75 kg = g

1,8 L = mL

7 Resuelve.

Una librería vende 24 cuadernos a 3,75 € cada uno. ¿Cuánto dinero recauda?

Operación:

Respuesta:



Más recursos educativos gratuitos en www.imageneseducativas.com

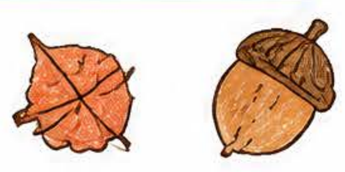



ACTIVIDADES DE REFUERZO

LENGUA Y MATEMÁTICAS

LUNES 23 DE NOVIEMBRE DE 2026

4.º DE PRIMARIA



LENGUA

1 Clasifica según su acentuación.

camión · lápiz · música · café · árbol · teléfono

Agudas

Llanas

Esdrújulas

2 Separa sujeto y predicado.

Los pájaros construyen sus nidos.

Sujeto:

Predicado:

Mi hermano juega al baloncesto.

Sujeto:

Predicado:

3 Escribe un sinónimo.

bonito →

veloz →

alegre →

comenzar →

MATEMÁTICAS

4 Calcula.

6.748 + 3.586 =

9.000 − 4.675 =

86 × 7 =

936 ÷ 8 =

5 Compara las fracciones.

Escribe >, < o =.

$\frac{1}{2}$ ☐ $\frac{1}{4}$ $\frac{3}{8}$ ☐ $\frac{5}{8}$ $\frac{2}{3}$ ☐ $\frac{2}{3}$

6 Calcula el perímetro.

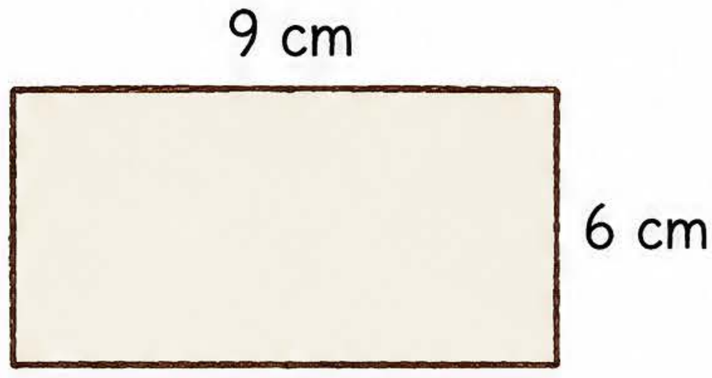

Perímetro = cm

7 Resuelve.

En una biblioteca hay 425 libros. Prestan 138 por la mañana y 96 por la tarde. ¿Cuántos quedan?

Operación:

Respuesta:



Más recursos educativos gratuitos en www.imageneseducativas.com



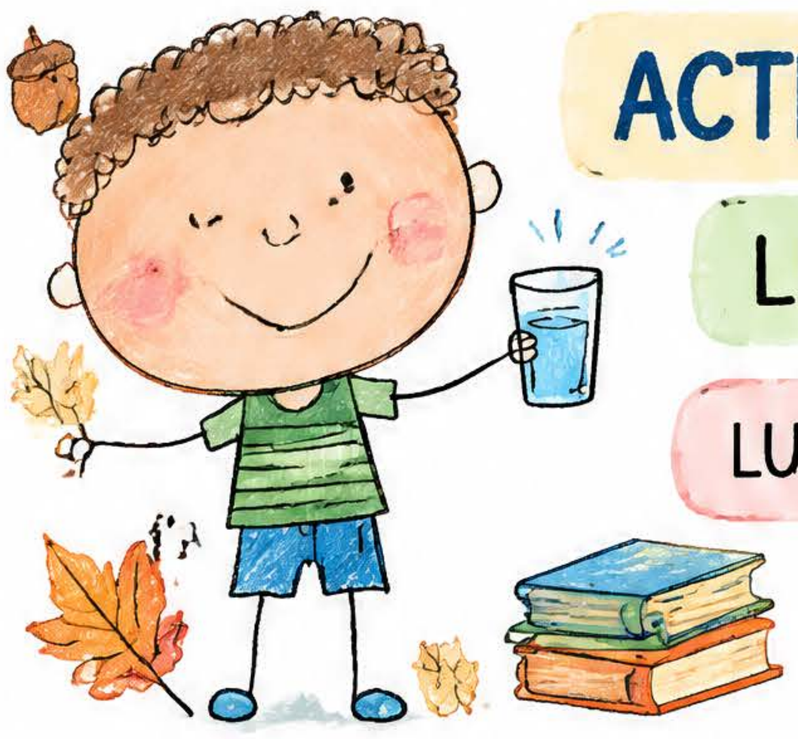

ACTIVIDADES DE REFUERZO

LENGUA Y MATEMÁTICAS

LUNES 23 DE NOVIEMBRE DE 2026

6.º DE PRIMARIA



LENGUA

1 Analiza la oración.

Los alumnos de sexto prepararon una exposición científica.

Sujeto: _____

Núcleo del sujeto: _____

Predicado: _____

Núcleo del predicado: _____

2 Completa con el conector adecuado.

aunque · porque · por eso

- No salimos al patio _____ llovía.
- Estudió mucho; _____ aprobó.
- _____ hacía frío, salimos a caminar.

3 Identifica el recurso literario.

- La luna es un farol de plata.

_____

- Las hojas bailaban con el viento.

_____

- Sus ojos brillan como estrellas.

_____

MATEMÁTICAS

4 Resuelve las operaciones combinadas.

$(96 - 48) \div 8 =$ _____

$8^2 - 6^2 =$ _____

$5 \times (17 - 9) =$ _____

$\sqrt{196} + 12 =$ _____

5 Calcula los porcentajes.

15 % de 800 = _____

25 % de 360 = _____

20 % de 950 = _____

6 Simplifica las fracciones.

$\frac{24}{36} =$ ____ $\frac{30}{45} =$ ____ $\frac{42}{56} =$ ____

7 Resuelve.

Una bicicleta cuesta 640 € y tiene un descuento del 25 %. ¿Cuál es su precio final?

Cálculos:

Respuesta:

Más recursos educativos gratuitos en www.imageneseducativas.com